№13, вар. 422.

13. Диаметр основания цилиндра равен 26, образующая цилиндра равна 21. Плоскость α пересекает его основания по хордам длины 24 и 10. Пусть M и N – середины этих хорд, P – точка пересечения прямой MN с осью цилиндра.

А) Докажите, что расстояния от точки P до плоскостей основания цилиндра относятся как 5:12.

Б) Найдите тангенс угла между плоскостью α и плоскостью основания цилиндра.




Рис. 1.

Решение. Т.к. MN пересекает ось цилиндра, то

А) хорды AB и CD находятся по разные стороны от пл. осевого сечения. Т.к. основания цилиндра расположены в 11 пл-тях, то пл. α пересекает их (осн-я) по парал. прямым т.е. AB // CD. (рис. 1).

$2R=26 \Rightarrow R=13$, M, N – середины хорд $\Rightarrow ON$, O_1M перпенд. к хордам CD и AB соотв-но. Следоват. ON и O_1M можно опр. из прямоуг. тр-в ONC и O_1MA соотв.

$O_1M=\sqrt{AO_1^2-AM^2}=\sqrt{169-144}=\sqrt{25}=5$, $ON=\sqrt{OC^2-CN^2}=\sqrt{169-25}=12$,

$O_1M \parallel ON$, т.к. они $\perp$ к парал. хордам $\Rightarrow \Delta PO_1M \sim \Delta PON$

$\Rightarrow \frac{O_1P}{PO}=\frac{O_1M}{ON}=\frac{5}{12}$, ч.т.д. Трапеция ABDC – сечение цилиндра пл-ю α.

Рис. 1.

Б) Т.к. ON и O_1M – пр-ции накл. MN на пл-ти оснований, а $ON \perp CD$ и $O_1M \perp AB$, то по т-ме о 3-х перпенд. $MN \perp CD, AB \Rightarrow \angle PNO = \angle PMO_1 = \varphi$ – лин. угол двугр-го угла между пл. α и пл. осн. $\Rightarrow \operatorname{tg}\varphi=\frac{PO}{ON}=\frac{PO_1}{MO_1}$, $OO_1=21=OP+PO_1=12x+5x$,

т.е. $17x=21 \Rightarrow x=\frac{21}{17} \Rightarrow PO=\frac{12\cdot 21}{17}$, $ON=12 \Rightarrow \operatorname{tg}\varphi=\frac{12\cdot 21}{17\cdot 12}=\frac{21}{17}$.

На рис. 2 хорды AB и CD наход. по одну сторону от осевого сечения, пр. MN не пересекает ось цилиндра. Искомый угол φ – это острый угол MNH п/р ΔMNH ($MH \perp$ из т. M на пл. нижн. осн.)

$\Rightarrow \operatorname{tg}\varphi=\frac{MH}{HN}$, $MH=21$, $NH=NO-OH=12-5=7$ ($OH=O_1M$) $\Rightarrow$

$\operatorname{tg}\varphi=\frac{21}{7}=3$. Ответ: $\frac{21}{17}$ или 3.




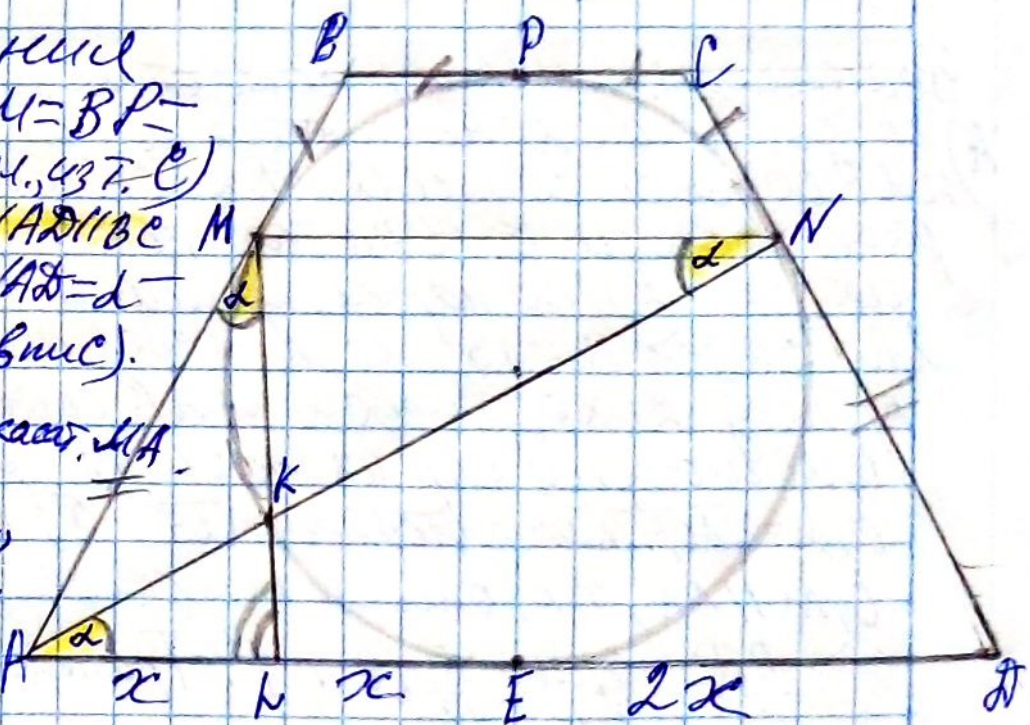
Рис. 2.

16. Окружность, вписанная в равнобедренную трапецию ABCD, касается боковых сторон AB и CD в точках M и N соответственно. Отрезок AN пересекает окружность в точке K, а луч MK пересекает основание AD в точке L.

А) Докажите, что треугольник AKL подобен треугольнику MAL.

Б) Найдите отношение AL : LD.

Ответ:
б) 1:3.



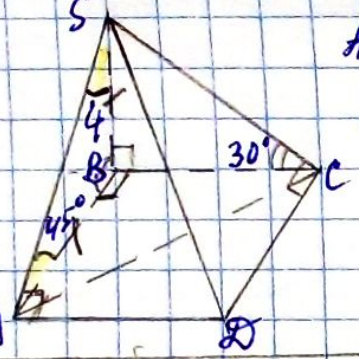
А) Трапеция ABCD – р/б., т-ки касания P и E – середины оснований ⇒ BM = BP = PC = CN (касат. из т. B равны, и, анал., из т. C) ⇒ AM = DN и AM : MB = DN : NC ⇒ MN ∥ AD ∥ BC. Т-ма о пропорц. отрезках. ∠MNA = ∠NAD = α – накрест лежащие. ∠MNK (A) = α = $\frac{1}{2}$ ∪MK (впис). ∠KMA = α = $\frac{1}{2}$ ∪MK (угол между хордой MK и касат. MA). Таким образом, ΔAKL ~ ΔMAL (∠A = ∠M = α, и ∠L – общий) – Т признак подобия, ч.т.д.

Б) Из доказанного подобия ⇒ $\frac{AL}{ML} = \frac{KL}{AL}$ ⇒

а) $AL^2 = ML \cdot KL$ (*); б) Из т. L проведены секущая LM (LK – внешн. часть) и касат. LE ⇒ $LM \cdot LK = LE^2$ (**). Из а) и б) ⇒ $AL^2 = LE^2$ ⇒ $AL = LE = \frac{1}{2} ED$ (E серед. AD).

След. AL = x, LD = x + 2x = 3x ⇒ AL : LD = x : 3x = 1 : 3 (в отв.)

№2



$AB=SB=4$ (ABS-р/б)

$BC=\frac{SB}{tg30^\circ}=4\sqrt{3}$ ($\triangle CBS$)

$AC=\sqrt{AB^2+BC^2}=\sqrt{16+48}=\sqrt{64}=8$ ($\triangle ABC$)

Отв. 8

№5. $tg\frac{\pi(x+9)}{6}=\sqrt{3}$. Наим. полож. корень?

$\frac{\pi(x+9)}{6}=\frac{\pi}{3}+\pi n \mid \cdot 6$

$\pi(x+9)=2\pi+6\pi n$; $x+9=2+6n$; $x=-7+6n$, $n\in Z$

При $n\le 0$ $x<0$, при $n=1$ $x=-1<0$; $x=-7+6n\uparrow$,

при $n\ge 2$ $x>0$ $x_{наим\ пол}=x(2)=-7+12=5$ – отв.

№6. $\log_a(a+1)\cdot\log_{a+1}(a+2)-?$, если $\log_{a+2}a=\frac{4}{3}$.

Решение. $\log_a(a+1)\cdot\frac{\log_a(a+2)}{\log_a(a+1)}=\frac{1}{\log_{a+2}a}=\frac{1}{4/3}=\frac{3}{4}=0{,}75$ отв.

$(\log_{a^n}b=\frac{1}{\log_b a})$

№9 Дано: $\frac{l}{v_г}=42$ (1), $\frac{l}{v_г+v_э}=24$ (2), найти $\frac{l}{v_э}$; l – длина эскал. (число ступ.)

Решение. Разделим (1) на (2), получим $\frac{v_г+v_э}{v_г}=\frac{42}{24}=\frac{7}{4}$.

Поделим почленно $\frac{v_г}{v_г}+\frac{v_э}{v_г}=\frac{7}{4}\Rightarrow\frac{v_э}{v_г}=\frac{7}{4}-1=\frac{3}{4}\Rightarrow v_г=\frac{4}{3}v_э$

Подставим в (1): $\frac{l}{\frac{4}{3}v_э}=42\Rightarrow\frac{l}{v_э}=42\cdot\frac{4}{3}=14\cdot4=56$ (с) отв.

Отв. 56 с.

№1. $\angle ABD=34^\circ$, $\angle CAD=50^\circ$ – вписан. углы, они измер. половиной дуги, на кот. опираются $\Rightarrow$

$\smile AD=2\cdot34^\circ=68^\circ$, $\smile CD=2\cdot50^\circ=100^\circ\Rightarrow\smile ADC=168^\circ$.

№10. $f(x)=a\sqrt{x+b}$ (*), $x-?$, чтобы $f(x)=16$.

Решение. Т-ки $A(-2;0)$, $B(2;4)\in$ гр. (см. рис. в усл.)

Подставим коорд-ы в (*), получим систему:

$\begin{cases}0=a\sqrt{-2+b}\\4=a\sqrt{2+b}\end{cases}\Rightarrow a\ne0$, след. $-2+b=0\Rightarrow b=2\Rightarrow$

$4=a\sqrt{2+2}$; $4=2a\Rightarrow a=2$

$f(x)=2\sqrt{x+2}$. Решим ур-ние $16=2\sqrt{x+2}$;

$\sqrt{x+2}=8$; $x+2=64$; $x=62$ – отв.

№11. Найти x_{min} ф-ции $y=25x+\frac{1}{x}$.

Решение. $D(y)$: $x\ne0$ (од. огр.)


$y'=25-\frac{1}{x^2}=\frac{25x^2-1}{x^2}=\frac{25\left(x^2-\frac{1}{25}\right)}{x^2}$,

$y'=\frac{25\left(x+\frac{1}{5}\right)\left(x-\frac{1}{5}\right)}{x^2}$; $D(y')$: $x\ne0$.

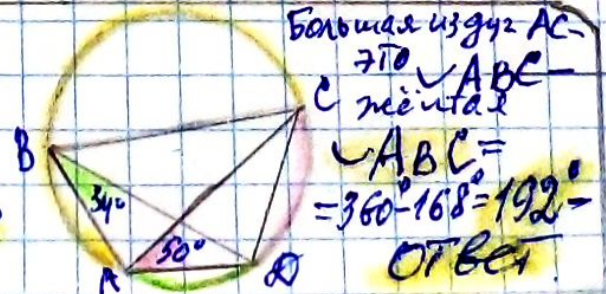
$y'=0$ при $x_1=-\frac{1}{5}$, $x_2=\frac{1}{5}$ – крит. т-ки

$x=\frac{1}{5}=0{,}2$ – т. min

Отв. 0,2.



$y=25x$, $x=0$ – асимптоты гр. ф-ции



Большая изуг. AC – это $\smile ABC$ – жёлтая

$\smile ABC=360^\circ-168^\circ=192^\circ$ – ответ

